Пригласительный (пробный) этап ВсОШ в городе Москве, история, 7 класс, 2021

10:00—21:00 14 май 2021 г.

№ 1 — 3

4 балла

Внимательно рассмотрите изображение и ответьте на вопросы.

Выберите из приведённого списка имена исторических деятелей, изображённых на юбилейной медали.

- [ ] **Дмитрий Донской**
- [ ] **Александр Невский**
- [ ] **Сергий Радонежский**
- [ ] **Ярослав Мудрый**
- [ ] **Александр Пересвет**
- [ ] **Родион Ослябя**
- [ ] **Нестор**
- [ ] **Челубей**

1 балл

Определите монастырь, где происходило отражённое на юбилейной медали событие.

- Новоиерусалимский монастырь
- Иосифо-Волоцкий монастырь
- Киево-Печёрский монастырь
- Троице-Сергиев монастырь

3 балла

Определите, какие три из перечисленных ниже событий произошли в правление того же князя, что и событие, изображённое на медали.

- [ ] Тверское восстание
- [ ] Стояние на реке Угре
- [ ] Битва на реке Воже
- [ ] Поход Тамерлана на Русь
- [ ] Битва на реке Пьяне
- [ ] Битва под Оршей
- [ ] Поход Тохтамыша на Москву
- [ ] Битва на реке Шелони
- [ ] Поход Едигея на Москву

№ 4

5 баллов

Установите соответствие между историческими деятелями Средневековой Руси и их европейскими современниками (жизнь которых приходится на тот же век).

Средневековая Русь	Средневековая Европа
Ярослав Мудрый	Генрих VIII Тюдор
Симеон Гордый	Людовик Святой
Александр Невский	Вильгельм Завоеватель
Святослав Игоревич	Эдуард Чёрный Принц
Андрей Боголюбский	Константин Багрянородный
	Фридрих Барбаросса

№ 5

6 баллов

Соотнесите представленные на изображениях архитектурные памятники с городами, в которых они находятся. Обратите внимание на то, что в списке есть лишние города.

А

Б

 В	 Г
 Д	 Е

А.

Б. 

В.

Г.

Д.

Е.

Москва

Нижний Новгород

Владимир

Великий Новгород

Париж

Лондон

Флоренция

Стамбул

№ 6

5 баллов

Внимательно рассмотрите предложенные схемы и выберите пять верных утверждений.

1.

2.

- [ ] **Господствующей религией государств, обозначенных на схемах буквами А и Б, было католичество.**
- [ ] **Основные успехи процесса, отражённого на схемах, пришлись на XI–XIII века.**
- [ ] **Количество государств на Пиренейском полуострове к началу XVI века сократилось до двух.**
- [ ] **Мореплаватель, действовавший от имени государства, обозначенного на схеме 2 жёлтым цветом, открыл Америку.**
- [ ] **Правители одного из государств, обозначенного на схемах, в конце XVI века заняли французский престол.**
- [ ] **В XVI–XVII веках правители государства, границы которого показаны красным цветом, смогли завоевать всю Северную Африку.**
- [ ] **Современником государств Пиренейского полуострова, отражённых на схеме 1, был Владимир Мономах.**
- [ ] **Спустя столетие большинство государств, обозначенных на схеме 2, стали приверженцами протестантизма.**
- [ ] **Два из обозначенных на схемах государства смогли первыми в истории Европы создать свои колониальные империи за океаном.**

☐ **Одно из существовавших на территории Пиренейского полуострова государства в XVI веке снарядило «Великую Армаду».**

№ 7

8 баллов

Вашему вниманию представлены фрагменты из сочинения выдающегося историка В. О. Ключевского «Исторические портреты». Прочитайте отрывки. Определите пропущенные в тексте названия, имена, даты, обозначенные порядковыми номерами. При необходимости при порядковых номерах даются пояснения о характере требуемой вставки.

Выберите из выпадающего списка верный ответ.

№№ 1, 2, 7	№№ 3, 4, 6	№№ 5, 8
Василий II	1462	
Иван III	1505	Москва
Василий III	1530	Новгород
Иван IV	1533	Тверь
Андрей Курбский	1547	Александровская слобода
Симеон Бекбулатович	1558	Казань
Малюта Скуратов	1564	Нижний Новгород
Борис Годунов	1572	Коломенское
Фёдор I	1575	

После того как спало с Москвы ордынское иго, в сношениях с неважными иностранными правителями, например, с ливонским магистром, **(1 – имя правителя)** Ответ

титулует себя «царем всея Руси». Этот термин, как известно, есть сокращённая южнославянская и русская форма латинского слова «цесарь», или, по старинному написанию, «цезарь», как от того же слова, по другому произношению, «кесарь» произошло немецкое «Kaiser».

Царь **(2 – имя правителя)** Ответ родился в **(3 – год)** г. От

природы он получил ум бойкий и гибкий, вдумчивый и немного насмешливый, настоящий великорусский, московский ум. Но обстоятельства, среди которых протекло [его]детство, рано испортили этот ум, дали ему неестественное, болезненное развитие. Он рано осиротел – на четвёртом году лишился отца, а на восьмом потерял и мать. Он с детства видел себя среди чужих людей. В душе его рано и глубоко врезалось и всю жизнь сохранялось чувство сиротства, брошенности, одиночества, о чём он твердил при всяком случае: «Родственники мои не заботились обо мне».

В московском Кремле случилось странное, небывалое событие. Раз в конце **(4 – год)** г. там

появилось множество саней. Царь, ничего никому не говоря, собрался со всей своей семьёй и с некоторыми придворными куда-то в дальний путь, захватил с собой утварь, иконы и кресты, платье и всю свою казну и выехал из столицы. Видно было, что это ни обычная богомольная, ни увеселительная поездка царя, а целое переселение. Москва оставалась в недоумении, не догадываясь, что задумал хозяин. Побывав у Троицы, царь со всем багажом остановился в **(5 – населённый пункт).** Ответ.

Позднее, в **(6 – год)** царь **(2)** венчал на царство татарина, касимовского хана Санн Булата, в

крещении **(7 – имя правителя)** Ответ, дав ему титул государя

великого князя всея Руси. Переводя этот титул на наш язык, можно сказать, что царь назначал его председателем думы земских бояр. Он правил царством два года, потом его сослали в **(8 – населённый пункт)** Ответ. Все правительственные указы писались от имени

этого **(7)** как настоящего всероссийского царя, а сам **(2)** довольствовался скромным титулом государя князя, даже не великого, а просто князя Московского, не всея Руси.

№ 8 — 12

2 балла

Выберите для каждой иллюстрации исторических деятелей, живших в то же время, в которое происходили изображённые события.

- [ ] **Софья Витовтовна**
- [ ] **Софья Палеолог**
- [ ] **Василий Косой**
- [ ] **Тохтамыш**

2 балла



- [ ] Марина Мнишек
- [ ] Ярослав Мудрый
- [ ] Дмитрий Грозные Очи
- [ ] Иван Болотников

2 балла

- [ ] Малюта Скуратов
- [ ] Степан Разин
- [ ] Афанасий Ордин-Нащокин
- [ ] Иосиф Волоцкий

2 балла

- [ ] Всеволод Большое Гнездо
- [ ] Ярослав Осмомысл
- [ ] Владимир Мономах
- [ ] Даниил Галицкий

2 балла

- [ ] Владимир Серпуховской
- [ ] Софья Палеолог
- [ ] Симеон Гордый
- [ ] Марфа Борецкая

№ 13

6 баллов

Прочитайте отрывок из исторического источника и выберите не более шести верных утверждений.

Тот же окаянный каких только бед и злобы не обрушил на Великую Россию! Святителей, над отцами начальствующих, свергнул, многих пастырей и наставников от паствы отлучил, много крови христианской пролил и, не насытившись таким бесовским ядом, взял себе в жёны лютеранской веры девку Маринку. И, не устыдившись нимало и не убоявшись бессмертного Бога, ввёл её, некрещёную, в соборную апостольскую церковь Пресвятой Богородицы и венчал её царским венцом. И хотел после этого разорить православную христианскую веру и святые церкви, завести костёлы латинские и установить лютеранскую веру <...>.
В это же время поднялся на православную христианскую веру нечестивый литовский король и воздвиг великую ярость и злобу. Пришёл он в пределы Московского государства под град Смоленск и многие города и сёла разорил, церкви и монастыри разрушил. Живущие же во граде Смоленске благочестивые люди решились лучше в мученических страданиях умереть, нежели в лютеранство уклониться, и многие от голода погибли и насильственную смерть приняли. И захвачен был город нечестивым королём. И кто не исполнится слёз и жалости о таком падении? Много святых церквей и монастырей было разорено, без числа православных скончалось от меча, не покорившись и не пойдя на присоединение к беззаконным, многие пали духом и были захвачены в плен! Когда же этот ненасытный кровопийца, польский и литовский король, был под градом Смоленском, тогда враг креста Христова, который царём Димитрием себя называл, стоял под царствующим градом Москвой с проклятыми литовцами. Многие и из русских людей из-за малодушия своего, ради лихоимства и грабежей, к нему присоединились и так же кровь христианскую, как воду, проливали.

- [ ] **Упомянутые в тексте события происходили в период Смуты.**
- [ ] **Упомянутый в тексте польско-литовский король – Сигизмунд III.**
- [ ] **В результате описанных в тексте событий прервалась династия Рюриковичей.**
- [ ] **Настоящим именем «царя Димитрия», вставшего под Москвой, было Григорий Отрепьев.**
- [ ] **Современником событий, описанных в тексте, был патриарх Филарет.**
- [ ] **Современником описанных в тексте событий был Фёдор Иоаннович.**
- [ ] **Автор текста критически относится к политике католической церкви, в связи с чем и критикует правителя.**
- [ ] **Упомянутый в тексте самозваный Дмитрий организовал свой лагерь в Тушино.**
- [ ] **Автором приводятся различные стратегии поведения русских людей в описываемое время.**

- [ ] **Описанная в тексте осада Смоленска завершилась победой оборонявшихся.**

- [ ] **Одной из главных трагедий описанного в тексте времени автор считает поругание святых церквей.**

- [ ] **Упомянутая в тексте Маринка приходилась племянницей Михаилу Шеину.**

№ 14

5 баллов

Перед вами плакаты, посвящённые истории XX века. Выберите пять, относящихся к периоду Великой Отечественной войны.

- [ ]

- [ ]
ДОЙДЕМ ДО БЕРЛИНА!

ВОИНУ-ПОБЕДИТЕЛЮ-
ВСЕНАРОДНАЯ ЛЮБОВЬ!

БЕСПОЩАДНО
РАЗГРОМИМ
И УНИЧТОЖИМ
ВРАГА!
ДОГОВОР
о ненападении
между
СССР и Германией
КУКРЫНИКСЫ-41г.

Нет такой силы,
которая поработила бы нас.
Кузьма Минин.

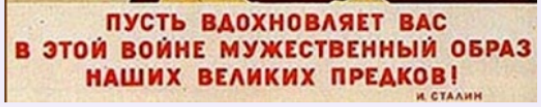
ПУСТЬ ВДОХНОВЛЯЕТ ВАС
В ЭТОЙ ВОЙНЕ МУЖЕСТВЕННЫЙ ОБРАЗ
НАШИХ ВЕЛИКИХ ПРЕДКОВ!
И. СТАЛИН

Плачетъ горько мальчикъ Вилли,–
Его здорово побили.

Отчего
вы не въ арміи?

НА КОНЯ, ПРОЛЕТАРИЙ!

Рабочая революция должна создать
могущественную красную конницу
Коммунист должен стать кавалеристом

ДА ЗДРАВСТВУЕТ
1Е МАЯ – ЗА ПОБЕДУ СОЦИАЛИЗМА
ВО ВСЕМ МИРЕ
РАВНЯЙТЕСЬ ПО ПЕРЕДОВИКАМ ПЯТИЛЕТКИ
ДА ЗДРАВСТВУЮТ НЕФТЯНИКИ ЗАВОДЫ „КРАСНАЯ ЗАРЯ" „ЭЛЕКТРОЗАВОД" „СВЕТЛАНА" „ЭЛЕКТРИК"
ПЯТИЛЕТКА В 2½ ГОДА
ДАЕШЬ
518 НОВО-СТРОЕК
1040 НОВЫХ МТС
Т.В.

ДО САМОЙ ДАЛЕКОЙ ПЛАНЕТЫ
СССР
НЕ ТАК УЖ, ДРУЗЬЯ, ДАЛЕКО!